10- 11 класс История

1. К какому году относится первая встреча русских с монголами на реке Калке?
1) 1169 г.
2) 1223 г.
3) 1238 г.
4) 1272 г.

2. Следствием победы русского войска на Куликовом поле стало
1) присоединение к Москве Новгорода и Твери
2) освобождение Руси от ордынского владычества
3) усиление позиций московских князей в борьбе за политическое лидерство
4) окончательное прекращение выплаты ордынского выхода

3.. Известный иконописец XV—начала XVI в.
1) Симон Ушаков
2) Дионисий
3) Аристотель Фиораванти
4) Алевиз Новый

4. Прочтите отрывок из работы современного историка и укажите, в чьё правление произошли упоминаемые в тексте преобразования.

«Оформление приказной системы ставило правительство перед необходимостью реорганизации кормлений... Отмену кормлений и преобразование военно-служилой системы... обычно считают крупнейшими мероприятиями Избранной рады».
1) Бориса Годунова
2) Ивана IV
3) Алексея Михайловича
4) Ивана III

5. В первой четверти XVIII в. русская армия стала укомплектовываться рядовым составом на основе
1) всесословной воинской обязанности
2) дворянского ополчения
3) рекрутской повинности
4) свободного найма

6. Одним из направлений внешней политики России в первой четверти XVIII в. являлась борьба за
1) Волжский торговый путь
2) выход в Балтийское море
3) Левобережную Украину
4) освобождение от ордынского владычества

7. Что из перечисленного было одной из причин возникновения заговора против Павла I?
1) установление нового порядка престолонаследия
2) ограничение некоторых прав и привилегий дворянства
3) ликвидация Верховного тайного совета
4) наметившееся сближение с Англией

8. Прочтите отрывок из записок императора и укажите его имя.

«Единообразие … допросов особенно ничего не представляло: те же признания, те же обстоятельства, более или менее полные. Но было несколько весьма замечательных, о которых упомяну… Каховский говорил смело, резко положительно и совершенно откровенно причину заговора относя к нестерпимым будто притеснениям и неправосудию. Никита Муравьев был образец закостенелого злодея. Одаренный необыкновенным умом, получивший отличное образование, но на заграничный лад, он был во всех мыслях дерзок и самонадеян до сумашествия, но вместе скрытен и необыкновенно тверд».
1) Павел I
2) Александр I
3) Николай I
4) Александр II

9. С. Ю. Витте был одним из инициаторов
1) основания военных поселений
2) строительства железной дороги Санкт-Петербург - Царское Село

3) проведения реформы управления государственными крестьянами
4) строительства Сибирской железной дороги

10. В целях поддержки дворянского землевладения в годы правления Александра III
1) увеличиваются выкупные платежи
2) создаётся Дворянский поземельный банк
3) продлевается временнообязанное состояние крестьян
4) разрушается крестьянская община

11. Прочтите отрывок из статьи в газете (1911 г.) и укажите фамилию государственного деятеля, о котором в ней говорится.

«Он первым дал в Государственной думе верный тон для взаимоотношений между исполнительной и законодательной властью; он первый начертал ту программу обновления строя, которую он неуклонно проводил до последнего дня своей жизни и которая, надо полагать, будет осуществляться и впредь. Ибо для человека, погибшего трагической смертью на своём посту, не может и не должно быть лучшего признания заслуг, как если преемники его вдохновятся заветами, выработанными во время государственной бури и оправдавшими себя в той сравнительно тихой гавани, куда он привёл Россию».

1) С. Ю. Витте
2) К. П. Победоносцев
3) П. А. Столыпин
4) М. Т. Лорис-Меликов

12. Кто из названым лиц был художником?
1) А. М. Опекушин
2) К. П. Брюллов
3) К. И. Росси
4) М. П. Мусоргский

13. Какая союзная республика вошла в состав СССР в 1940 г.?
1) Украинская ССР
2) Грузинская ССР
3) Литовская ССР
4) Узбекская ССР

14. Что из перечисленного являлось причиной образования СССР?
1) хозяйственное единство и взаимозависимость районов бывшей Российской империи
2) необходимость восстановления Российского государства в размерах империи
3) стремление национальных окраин к восстановлению единого государства
4) заинтересованность иностранных государств в торговом сотрудничестве с крупным государством

15. Испанец по национальности, ребенком эвакуированный в СССР, За свой подвиг при обороне Сталинграда, получивший звание Героя Советского Союза
1) Рубен Ибаррури
2) Хулиан Руис
3) Хосе Браво
4) Анхель Коррал

16. Укажите хронологические рамки советского контрнаступления под Сталинградом в годы Великой Отечественной войны.
1) январь—октябрь 1942 г.
2) ноябрь 1942 г.—февраль 1943 г.
3) июль—август 1943 г.
4) сентябрь 1943 г.—январь 1944 г.

17. Что из перечисленного способствовало началу периода разрядки международной напряжённости?
1) предложение США Советскому Союзу помощи по плану Маршалла
2) роспуск Организации Варшавского договора
3) достижение военно-стратегического паритета между СССР и США
4) вывод советских войск из Афганистана

18. Какое из перечисленных событий произошло раньше других?

1) подписание Договора о запрещении испытаний ядерного оружия в атмосфере, космическом пространстве и под водой
2) образование Организации Североатлантического пакта (НАТО)
3) создание Организации Варшавского договора (ОВД)
4) возведение Берлинской стены

19. Прочтите отрывок из высказывания советского композитора и укажите его фамилию.

«Мне хотелось создать произведение о наших днях, о нашей жизни, о наших людях, которые становятся героями, которые борются во имя торжества нашего над врагом... Работая над симфонией, я думал о величии нашего народа, о его героизме, о лучших идеалах человечества, о прекрасных качествах человека, о нашей прекрасной природе, о гуманизме, о красоте... Нашей борьбе с фашизмом, нашей грядущей победе над врагом, моему родному городу — Ленинграду — я посвящаю свою 7-ю симфонию».

1) С. С. Прокофьев
2) А. В. Александров
3) А. И. Хачатурян
4) Д. Д. Шостакович

20. С каким событием связан выход сборника «Смена вех», изданного в 1921 г.?

1) провозглашение курса на индустриализацию страны
2) начало сплошной коллективизации сельского хозяйства
3) переход к новой экономической политике
4) начало Великой Отечественной войны

21. Что из названного характеризует политическую жизнь РФ в начале XXI в.?

1) укрепление «вертикали власти»
2) либерализация цен
3) коллективизация сельского хозяйства
4) однопартийная политическая система

22. Расположите в хронологической последовательности исторические события. Запишите цифры, которыми обозначены исторические события, в правильной последовательности в ответ.

1) битва на р. Калке
2) венчание на царство Ивана Грозного
3) созыв Уложенной комиссии
4) перевод крестьян на обязательный выкуп
5) организация военных поселений

23. Какие три города были присоединены к Москве в XVI в.? Запишите в таблицу цифры, под которыми они указаны.

1) Псков 2) Смоленск 3) Рязань 4) Тверь 5) Новгород 6) Коломна

24. Установите соответствие между фамилиями государственных деятелей и историческими событиями

ФАМИЛИИ ГОСУДАРСТВЕННЫХ ДЕЯТЕЛЕЙ	ИСТОРИЧЕСКИЕ СОБЫТИЯ
А) Александр III	1) создание военных поселений
Б) А. Х. Бенкендорф	2) издание циркуляра о «кухаркиных детях»
В) Н. Х. Бунге	3) финансовая реформа
Г) А. А. Аракчеев	4) отмена крепостного права
	5) создание III отделения с.е.и.в. канцелярии

Запишите в ответ цифры, расположив их в порядке, соответствующем буквам:

А	Б	В	Г

25. Ниже приведён ряд терминов, понятий. Появление всех, за исключением одного, относится к XVI−XVII в.

1) Соборное уложение

2) стрельцы
3) опричнина
4) коллегии
5) разинщина
6) раскольники

Найдите и запишите порядковый номер термина, понятия, относящегося к другому историческому периоду.

26. Напишите пропущенное слово.

Территории бывших союзных республик с 1992 г. стали называть _____.

27. Заполните пустые ячейки таблицы, используя представленные в приведённом ниже списке данные. Для каждой ячейки, обозначенной буквами, выберите номер нужного элемента.

Событие	**Название населённого пункта (территории)**	**Год**
_____(А)	д. Прохоровка	_____(Б)
_____(В)	г. Сталинград	1942 г.
Первый воздушный ночной таран в период Великий Отечественный войны	_____(Г)	_____(Д)
Первая встреча советских и американских войск в период Великой Отечественной войны	_____(Е)	1945 г.

1) г. Торгау
2) 1943 г.
3) г. Москва и Московская область
4) г. Будапешт
5) окружение 6-й германской армии под командованием Ф. Паулюса
6) первая встреча лидеров стран «Большой тройки»
7) 1941г.
8) крупнейшее танковое сражение в период Великой Отечественной войны
9) 1944 г.

Запишите в ответ цифры, расположив их в порядке, соответствующем буквам:

А	Б	В	Г	Д	Е

28.. Прочтите отрывок из исторического источника.

«Наконец, Наполеон вторгся в Россию, и тогда-то народ русский впервые ощутил свою силу, тогда-то пробудилось во всех сердцах чувство независимости, сперва политической, а впоследствии и народной. Вот начало свободомыслия в России.

Правительство само произнесло слова: "Свобода, освобождение". Само рассевало сочинение о злоупотреблении неограниченной власти Наполеона, и клик русского монарха огласил берега Рейна и Сены. Ещё война длилась, когда ратники, возвратясь в дома, первые разнесли ропот в классе народа. "Мы проливали кровь, говорили они, а нас опять заставляют потеть на барщине. Мы избавили родину от тирана, а нас вновь тиранят господа..." Тогда-то стали говорить военные: "Для того ль освободили мы Европу, чтобы наложить цепи на себя? для того ль дали конституцию Франции, чтобы не сметь говорить о ней, и купили кровью первенство между народами, чтобы нас унижали дома?".

...А как ропот народа, от злоупотребления властей происшедший, грозил кровавою революцией, то тайные общества вознамерились отвратить меньшим злом большее и начать свои действия при первом удобном случае...»

Используя отрывок и знания по истории, выберите в приведённом списке три верных суждения. Запишите в ответ цифры, под которыми они указаны.

1) Одной из главных целей движения военных, упоминаемого в отрывке, была отмена крепостного права.

2) Русский монарх, упоминаемый в отрывке, — это Николай I.

3) Автор воспоминаний отрицательно относится к настроениям, распространявшимся в среде военных после окончания войны с Наполеоном.

4) Все участники движения военных, упоминаемого в отрывке, по своим политическим взглядам были республиканцами.

5) Участниками тайных обществ, упоминаемых в отрывке, были И. И. Пущин и К. Ф. Рылеев.

6) Одними из первых тайных обществ, о которых говорится в отрывке, были Союз спасения и Союз благоденствия.

29. Рассмотрите схему и выполните задания

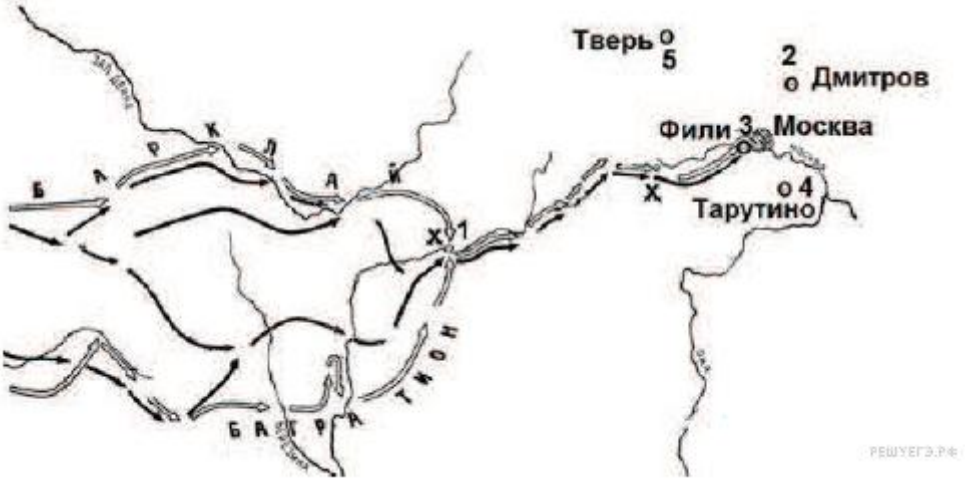

Напишите имя полководца, вторжение войск которого в Россию показано на схеме.

30. Рассмотрите схему и выполните задания

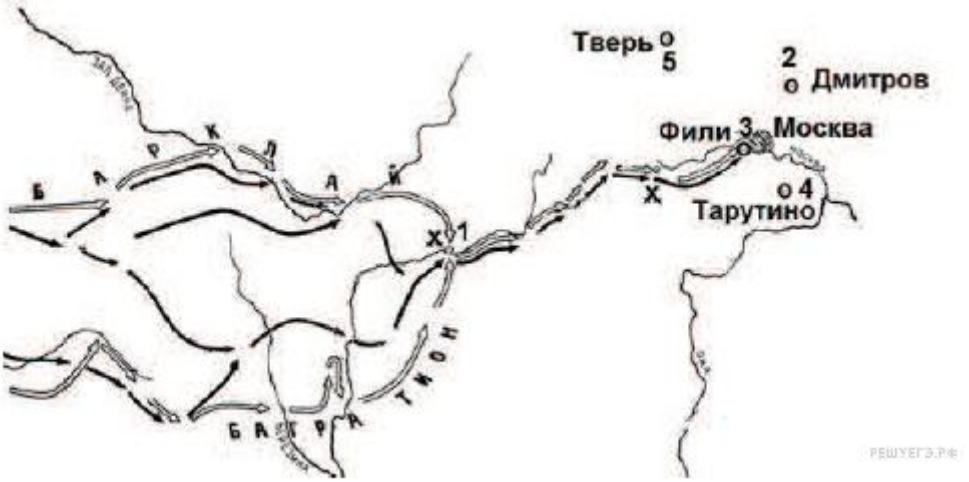

Напишите название города, обозначенного на схеме цифрой «1».

31. Рассмотрите схему и выполните задания

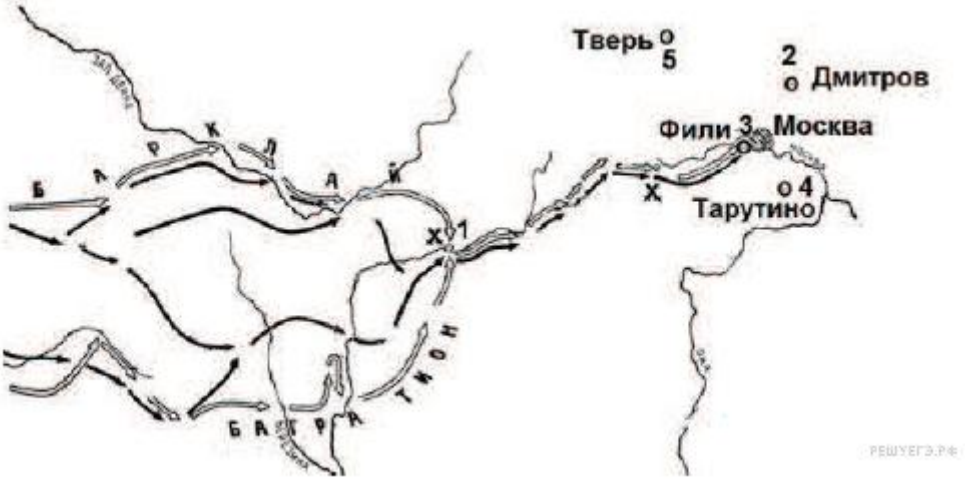

Напишите цифру, обозначающую населённый пункт, в котором русские войска встали лагерем после оставления Москвы.

32. Рассмотрите схему и выполните задания

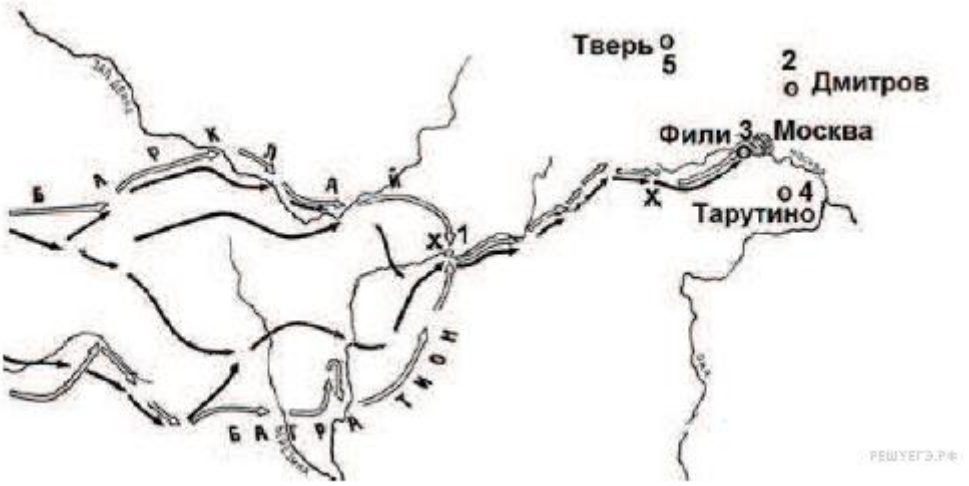

Какие суждения, относящиеся к событиям, связанным со схемой, являются верными? Выберите три суждения из шести предложенных. Запишите в таблицу цифры, под которыми они указаны.

1) С начала изображённых на карте военных действий русские войска преследовали вторгшегося неприятеля.
2) В ходе данной войны русские войска возглавил М. И. Кутузов.
3) Самое кровопролитное сражение этой войны произошло под Вязьмой.
4) В ходе событий, указанных на схеме, в России развернулась народная война против неприятеля.
5) Указанные на схеме военные действия длились больше года.
6) Вторгшаяся в Россию неприятельская армия получила в истории название «Великая армия».

33. Рассмотрите изображение и выполните задание

Какие суждения о данном изображении являются верными? Выберите два суждения из пяти предложенных. Запишите в таблицу цифры, под которыми они указаны.

1) Непосредственным участником события, которому посвящена карикатура, являлся Ф. Рузвельт.
2) Данная карикатура создана в 1935 г.
3) Событие, которому посвящена карикатура, оказало значительное влияние на смену внешнеполитического курса СССР.
4) Событие, которому посвящена карикатура, произошло в Берлине.
5) На данной карикатуре изображены представители Англии и Франции.

34.

Укажите изображение объекта, построенного в годы руководства СССР того же политического деятеля, при котором была создана данная карикатура. В ответе запишите цифру, под которой этот объект указан.



35. Прочтите отрывок из царского манифеста.

«Объявляем всем верным Нашим подданным:

Следуя историческим своим заветам, Россия, единая по вере и крови с славянскими народами, никогда не взирала на их судьбу безучастно. С полным единодушием и особою силою пробудились братские чувства русского народа к славянам в последние дни, когда Австро-Венгрия предъявила Сербии заведомо неприемлемые для Державного государства требования. Презрев уступчивый и миролюбивый ответ Сербского правительства, отвергнув доброжелательное посредничество России, Австрия поспешно перешла в вооружённое нападение, открыв бомбардировку беззащитного Белграда.

Вынужденные в силу создавшихся условий принять необходимые меры предосторожности, Мы повелели привести армию и флот на военное положение, но, дорожа кровью и достоянием Наших подданных, прилагали все усилия к мирному исходу начавшихся переговоров. Среди дружественных сношений союзная Австрии Германия, вопреки Нашим надеждам на вековое доброе соседство и не внемля заверению Нашему, что принятые меры отнюдь не имеют враждебных ей целей, стала домогаться немедленной их отмены и, встретив отказ в этом требовании, внезапно объявила России войну.

Ныне предстоит уже не заступаться только за несправедливо обиженную родственную Нам страну, но оградить честь, достоинство, целость России и положение её среди Великих Держав.

Мы непоколебимо верим, что на защиту Русской Земли дружно и самоотверженно встанут все верные Наши подданные.

В грозный час испытания да будут забыты внутренние распри. Да укрепится ещё теснее единение Царя с Его народом, и да отразит Россия, поднявшаяся как один человек, дерзкий натиск врага.

Се глубокою верою в правоту Нашего дела и смиренным упованием на Всемогущий Промысел, Мы молитвенно призываем на Святую Русь и доблестные войска Наши Божие благословение».

В каком году был издан данный манифест? Укажите название войны, о начале которой в нём говорится. Назовите монарха, издавшего этот манифест.

36.Прочтите отрывок из царского манифеста.

«Объявляем всем верным Нашим подданным:

Следуя историческим своим заветам, Россия, единая по вере и крови с славянскими народами, никогда не взирала на их судьбу безучастно. С полным единодушием и особою силою пробудились братские чувства русского народа к славянам в последние дни, когда Австро-Венгрия предъявила Сербии заведомо неприемлемые для Державного государства требования. Презрев уступчивый и миролюбивый ответ Сербского правительства, отвергнув доброжелательное посредничество России, Австрия поспешно перешла в вооружённое нападение, открыв бомбардировку беззащитного Белграда.

Вынужденные в силу создавшихся условий принять необходимые меры предосторожности, Мы повелели привести армию и флот на военное положение, но, дорожа кровью и достоянием Наших подданных, прилагали все усилия к мирному исходу начавшихся переговоров. Среди дружественных сношений союзная Австрии Германия, вопреки Нашим надеждам на вековое доброе соседство и не внемля заверению Нашему, что принятые меры отнюдь не имеют враждебных ей целей, стала домогаться немедленной их отмены и, встретив отказ в этом требовании, внезапно объявила России войну.

Ныне предстоит уже не заступаться только за несправедливо обиженную родственную Нам страну, но оградить честь, достоинство, целость России и положение её среди Великих Держав.

Мы непоколебимо верим, что на защиту Русской Земли дружно и самоотверженно встанут все верные Наши подданные.

В грозный час испытания да будут забыты внутренние распри. Да укрепится ещё теснее единение Царя с Его народом, и да отразит Россия, поднявшаяся как один человек, дерзкий натиск врага.

Се глубокою верою в правоту Нашего дела и смиренным упованием на Всемогущий Промысел, Мы молитвенно призываем на Святую Русь и доблестные войска Наши Божие благословение».

О каких действиях России, предпринятых ею перед началом этой войны, пишет автор манифеста? Укажите три действия.

37. Прочтите отрывок из царского манифеста.

«Объявляем всем верным Нашим подданным:

Следуя историческим своим заветам, Россия, единая по вере и крови с славянскими народами, никогда не взирала на их судьбу безучастно. С полным единодушием и особою силою пробудились братские чувства русского народа к славянам в последние дни, когда Австро-Венгрия предъявила Сербии заведомо неприемлемые для Державного государства требования. Презрев уступчивый и миролюбивый ответ Сербского правительства, отвергнув доброжелательное посредничество России, Австрия поспешно перешла в вооружённое нападение, открыв бомбардировку беззащитного Белграда.

Вынужденные в силу создавшихся условий принять необходимые меры предосторожности, Мы повелели привести армию и флот на военное положение, но, дорожа кровью и достоянием Наших подданных, прилагали все усилия к мирному исходу начавшихся переговоров. Среди дружественных сношений союзная Австрии Германия, вопреки Нашим надеждам на вековое доброе соседство и не внемля заверению Нашему, что принятые меры отнюдь не имеют враждебных ей целей, стала домогаться немедленной их отмены и, встретив отказ в этом требовании, внезапно объявила России войну.

Ныне предстоит уже не заступаться только за несправедливо обиженную родственную Нам страну, но оградить честь, достоинство, целость России и положение её среди Великих Держав.

Мы непоколебимо верим, что на защиту Русской Земли дружно и самоотверженно встанут все верные Наши подданные.

В грозный час испытания да будут забыты внутренние распри. Да укрепится ещё теснее единение Царя с Его народом, и да отразит Россия, поднявшаяся как один человек, дерзкий натиск врага.

Се глубокою верою в правоту Нашего дела и смиренным упованием на Всемогущий Промысел, Мы молитвенно призываем на Святую Русь и доблестные войска Наши Божие благословение».

Каковы особенности этой войны, отличающие её от предыдущих войн? Укажите три особенности.

38. В XVI в. в России утвердилось крепостное право. Укажите название документа, на основании которого крепостное право в России было оформлено окончательно. Укажите не менее двух обычных (типичных) условий договора между землевладельцем и пришедшим к нему крестьянином, которые определяли их сотрудничество до конца XVI в.

39. В исторической науке существуют дискуссионные проблемы, по которым высказываются различные, часто противоречивые точки зрения. Ниже приведена одна из спорных точек зрения, существующих в исторической науке.

«*Развитие России в XVII в. шло в ином направлении, чем развитие Западной Европы*».

Используя исторические знания, приведите два аргумента, которыми можно подтвердить данную точку зрения, и два аргумента, которыми можно опровергнуть её.

Ответ запишите в следующем виде.

Аргументы в подтверждение:

1) …

2) …

Аргументы в опровержение:

1) …

2) …

40. Выберите из предложенных вариантов ОДНОГО исторического деятеля определённой эпохи и напишите его исторический портрет. Укажите время жизни исторического деятеля. Дайте краткую характеристику основных направлений (событий, достижений и т.п.) и результатов его деятельности.

1) патриарх Никон;

2) Александр I;

3) А. И. Солженицын;

4) Жак Ширак.